وزارة التربية
الإدارة العامة لمنطقة الجهراء التعليمية

الفصل الدراسي الثاني
مدرسة هالة بنت خويلد م . بنات

بند ٩ – ٣ استكشاف جمع الأعداد الصحيحة

اكتب الجملة العددية التي تمثل كلًّا من النماذج التالية ، ثم أوجد الناتج .

١- 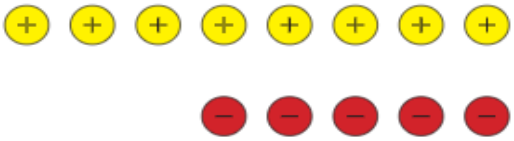

.....

٢- 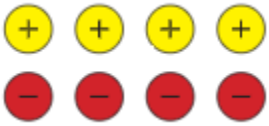

.....

٣- 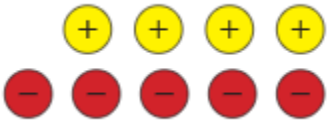

.....

٤-

.....